Zahlenfolge 1000

Setze die Zahlenfolgen fort.
Gib die Regel an, nach der die Zahlenfolgen gebildet sind.

20 — 40 — 80 — ◯ — 320 Regel: _____

1 — 5 — 25 — ◯ — 625 Regel: _____

3 — 12 — 48 — ◯ — 768 Regel: _____

6 — 12 — 24 — ◯ — ◯ — ◯ — ◯ Regel: _____

5 — 15 — 45 — ◯ — ◯ Regel: _____

5 — 10 — 20 — ◯ — ◯ — ◯ — 320 Regel: _____

1 — 3 — 9 — ◯ — ◯ — ◯ — 729 Regel: _____

5 — 10 — 20 — ◯ — ◯ — ◯ — ◯ Regel: _____

4 — 12 — 36 — ◯ — ◯ — 972 Regel: _____

5 — 10 — 20 — ◯ — ◯ — ◯ — 320 Regel: _____

1 — 2 — 4 — ◯ — ◯ — ◯ — ◯ Regel: _____

Zahlenfolge 1000

Setze die Zahlenfolgen fort.
Gib die Regel an, nach der die Zahlenfolgen gebildet sind.

10 — 20 — 40 — ◯ — 160 Regel: _____

1 — 5 — 25 — ◯ — 625 Regel: _____

2 — 8 — 32 — ◯ — 512 Regel: _____

3 — 6 — 12 — ◯ — ◯ — ◯ — ◯ Regel: _____

2 — 6 — 18 — ◯ — ◯ Regel: _____

10 — 20 — 40 — ◯ — ◯ — ◯ — 640 Regel: _____

1 — 3 — 9 — ◯ — ◯ — ◯ — 729 Regel: _____

4 — 8 — 16 — ◯ — ◯ — ◯ — ◯ Regel: _____

2 — 6 — 18 — ◯ — ◯ — 486 Regel: _____

15 — 30 — 60 — ◯ — ◯ — ◯ — 960 Regel: _____

4 — 8 — 16 — ◯ — ◯ — ◯ — ◯ Regel: _____

Zahlenfolge 1000

Setze die Zahlenfolgen fort.
Gib die Regel an, nach der die Zahlenfolgen gebildet sind.

20 — 40 — 80 — ◯ — 320 Regel: _____

1 — 5 — 25 — ◯ — 625 Regel: _____

3 — 12 — 48 — ◯ — 768 Regel: _____

14 — 28 — 56 — ◯ — ◯ — ◯ — ◯ Regel: _____

3 — 9 — 27 — ◯ — ◯ Regel: _____

9 — 18 — 36 — ◯ — ◯ — ◯ — 576 Regel: _____

1 — 3 — 9 — ◯ — ◯ — ◯ — 729 Regel: _____

5 — 10 — 20 — ◯ — ◯ — ◯ — ◯ Regel: _____

3 — 9 — 27 — ◯ — ◯ — 729 Regel: _____

12 — 24 — 48 — ◯ — ◯ — ◯ — 768 Regel: _____

2 — 4 — 8 — ◯ — ◯ — ◯ — ◯ Regel: _____

Zahlenfolge 1000

Setze die Zahlenfolgen fort.
Gib die Regel an, nach der die Zahlenfolgen gebildet sind.



Regel: _____



Regel: _____



Regel: _____

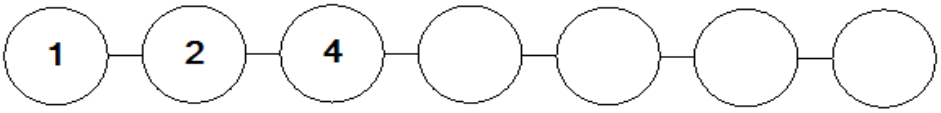

Regel: _____



Regel: _____

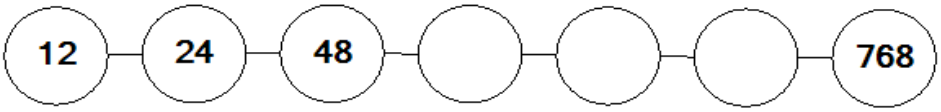

Regel: _____

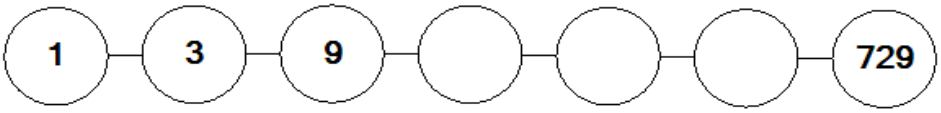

Regel: _____

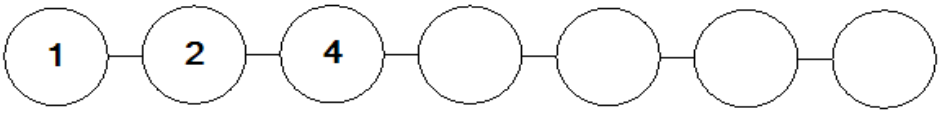

Regel: _____

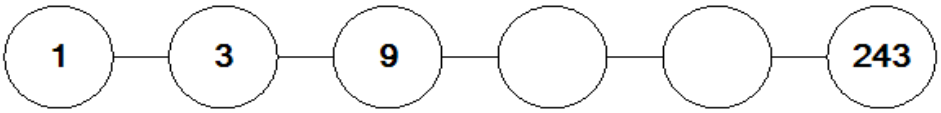

Regel: _____

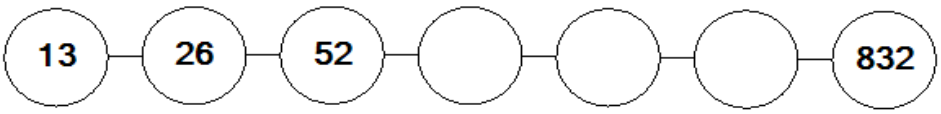

Regel: _____

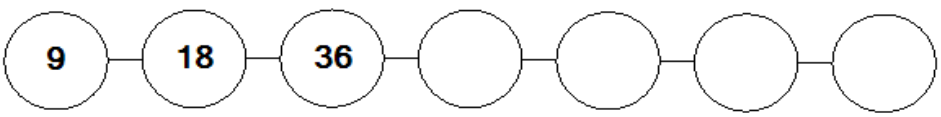

Regel: _____

Zahlenfolge 1000

Setze die Zahlenfolgen fort.
Gib die Regel an, nach der die Zahlenfolgen gebildet sind.

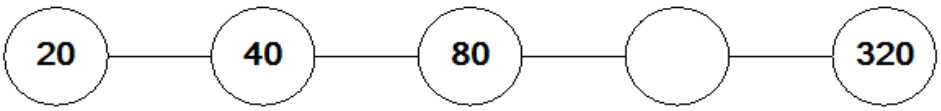

Regel: _____



Regel: _____



Regel: _____

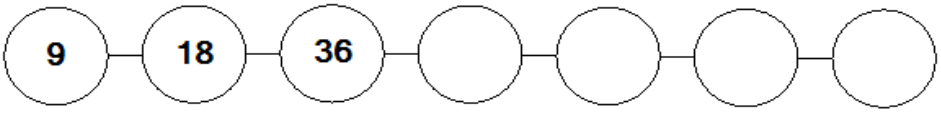

Regel: _____



Regel: _____

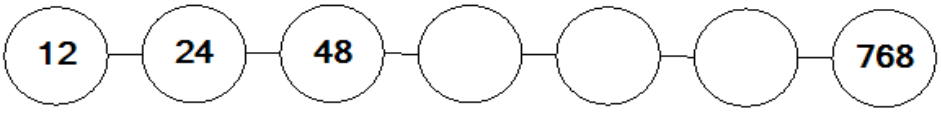

Regel: _____

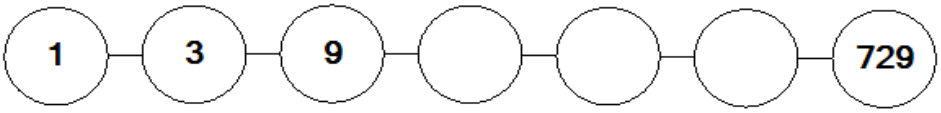

Regel: _____

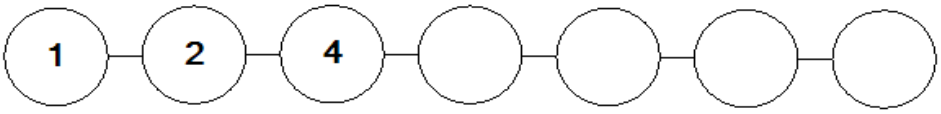

Regel: _____

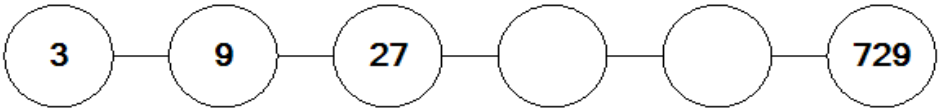

Regel: _____

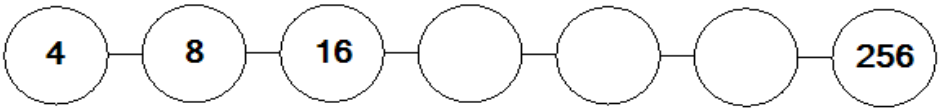

Regel: _____

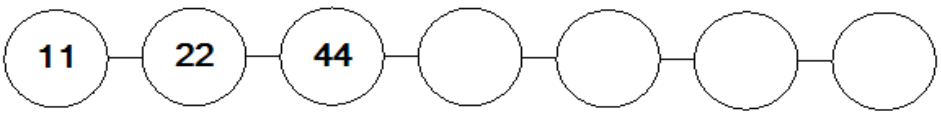

Regel: _____